21 ひきざん(4)

がつ　　にち

ちがいは いくつ

1 ひこうきは　ロボット(ろぼっと)より　いくつ　おおいですか。



□に　かずを　かきましょう。

ブロックを　つかって　かんがえよう。

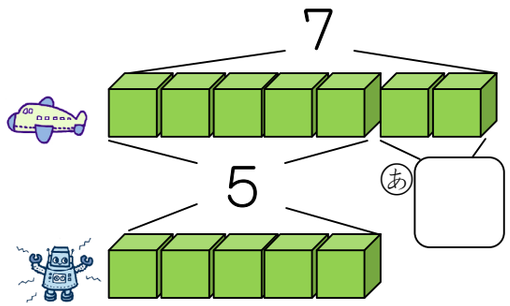

しき

□ − □ ＝ □

こたえ　　つ　おおい

2 にわとりは　ひよこより　なんわ　おおいですか。



しき

こたえ　　わ　おおい

なまえ

3 だいこんと　たけのこの　かずの　ちがいは　なんぼんですか。



しき

こたえ　　ほん

4 かまきりと　くわがたの　かずの　ちがいは　なんびきですか。



しき

こたえ　　ひき

5 はさみと　えんぴつでは　どちらが　いくつ　おおいですか。



しき

こたえ　　が　　つ　おおい