1

名前

たし算とひき算（1）

・3けた＋2けた
・3けた＋3けた

月　日

「おさらいプリント3」深大出版

1　273円のシュークリームと、364円のショートケーキを買います。あわせて何円ですか。

文章問題は、まず式を考えて書きましょう。
次に筆算、答えのじゅんに書きましょう。

式

筆算

答え

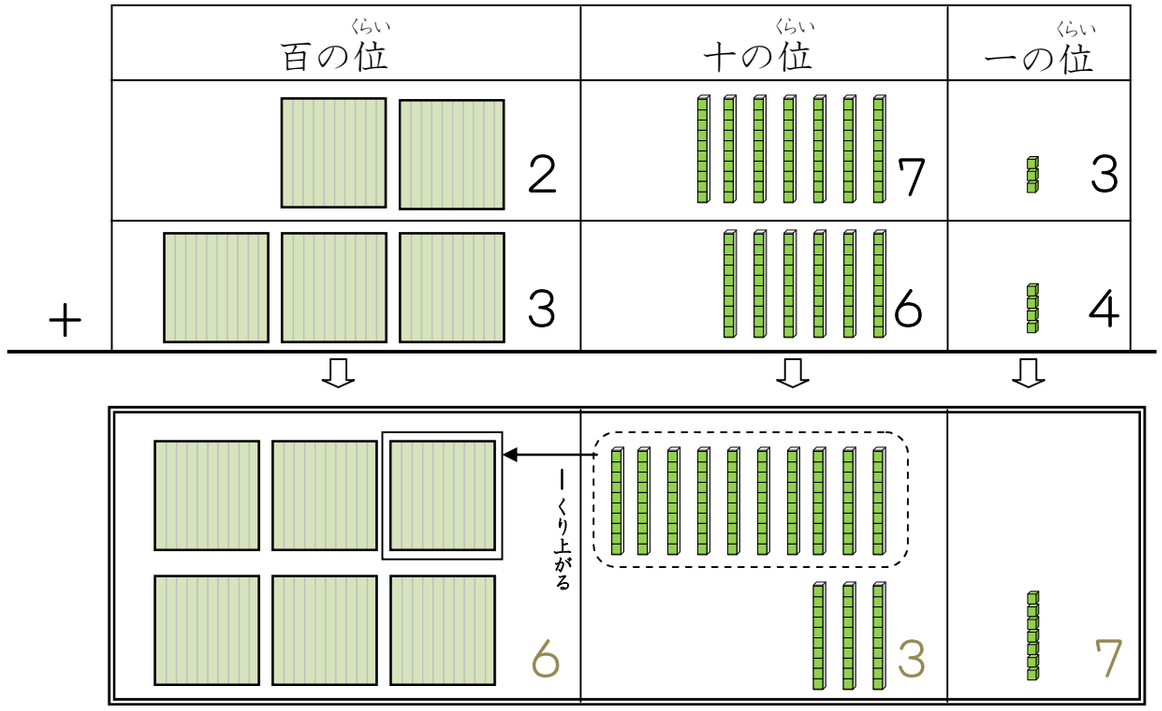

たし算の筆算は、3けたの場合も、位をそろえて一の位からじゅんに計算していきます。

2　筆算をしましょう。

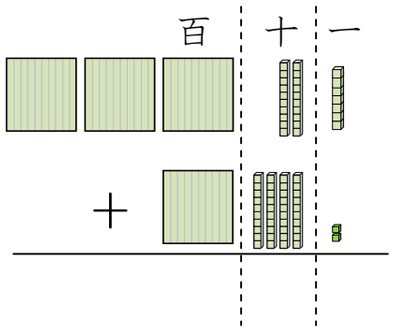

①

	3	2	7
+	1	4	2

②

	4	2	3
+	2	5	8

3　消しゴムが127円、ノートが196円です。あわせていくらですか。

式

筆算

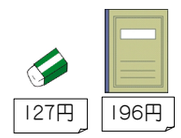

答え

4　筆算でしましょう。

① 417＋569

② 112＋395

③ 835＋92

④ 568＋74

⑤ 35＋678

⑥ 208＋926